LÄÄNEMAA SEIKLUSORIENTEERUMINE 2019

ÜLESANNETE VIHIK

Osalevad Haapsalu linn ja Lääne-Nigula vald

Koordineerib Lääne Maakonna Spordiliit Läänela

LÄÄNELA
LÄÄNE MAAKONNA SPORDILIIT

SPORDINÄDAL

KULTUURKAPITAL

SIHTASUTUS LÄÄNEMAA

SPORT KÕIGILE

23.-30. september toimud spordiliit Läänela eestvedamisel ning omavalitsustega koostöös
LÄÄNEMAA SEIKLUSORIENTEERUMINE 2019
Osalevad Haapsalu ja Lääne-Nigula

Seiklusorienteerumise eesmärk on tunda rõõmu vabas õhus liikumisest.
Seiklusorienteerumise põhimõte on lihtne. Saad valida endale sobiva raja (võid läbida ka kõik rajad), tempo, sõbrad ja liikumisvahendi (jalgratas jms). **Sõpru ühes tiimis võiks olla maksimaalselt 5 inimest. Võid läbida rada ka üksi.**
Rajale saad kaasa kaardid koos küsimuste ning lisainfoga. Vastused küsimustele leiad üldjuhul kohapeal orienteerumisraja punktis. Punkte ei ole kohustuslik läbida numbrite järjekorras, vali ise, millisest punktist alustad, kui palju punkte läbid ja millises lõpetad. SUL ON AEGA!
Kaardid saad võtta kindlatest kohtadest alates 23. septembri hommikul kella 11st. Info on leitav *www.laanesport.ee* ja FB Läänemaa seiklusorienteerumine.
Täidetud (ka osaliselt) küsimuste vastuste lehed tagasta loosis osalemiseks ükskõik millisesse tagastuspunkti radade kirjelduste juures hiljemalt 30. septembril kella 16ks (või vastavalt vihikus kirjeldatud kellaaegadel).
Lisainfo ja küsimused: Ülle Lass, 5171746, *spordiliit@laanesport.ee*
Auhinnad kõikide osalejate vahel loositakse 2. oktoobril. Loosis osalemiseks peavad olema vastatud vähemalt pooled küsimused rajal olevatest punktidest. Videoülesvõtted loosimisest pannakse üles FB Läänemaa seiklusorienteerumise lehele.
Huvitavamatele ja seikluslikumatele fotodele/videolõikudele eriauhinnad! Võta oma rada pildile! Ka peaauhinna saaja(d) peavad oma rada vajadusel ülesvõtetes (pildi või videodena) esitama. Vastav pildi-ja videokeskkond pannakse üles *www.laanesport.ee* lehel või FB Läänemaa Seiklusorienteerumise ürituse lehel.

Kaanefotod: Vendo Jugapuu

ÜLDINFO

Radasid saab läbida jalgsi, joostes, rattaga sõites jm liikumisvahenditega, millega pead ennast liigutama tervislikult. Radade pikkused on arvestatud liikumisega mööda avalikku teed. Kui minnakse kusagilt otse, siis on lühem. Punktidele ei pea otsima vastuseid ühe päeva sees. Võite oma raja osadeks jagada. Peate loosis osalemiseks läbima vähemalt 50% seiklusorienteerumise punktidest.

Haapsalus saab ülesannete vihikuid Haapsalu spordihoonest
(Lihula mnt 10)
E-P 8.00 - 22.00

Haapsalu linna rada
Haapsalu raja pikkus kõikide punktide läbimisel on orienteeruvalt 12 km
Paralepa - Pullapää - Rohuküla rada
Raja pikkus kõikide punktide läbimisel on orienteeruvalt 25 km

Lisainfo: Loe läbi kindlasti ka vihiku üldinfo!

Maie Arro foto

VASTAJA INFO

Osaleja nimi (või grupi liikmete nimed) Kontakttelefon

....

Elukoht/kool/asutus

.....

1. Haapsalus sai spordikeskuse rajamine alguse 1960ndate esimeses pooles. Esimene teade kergejõustiku võistlustest uuel staadionil toimus ajalehe andmetel 22. juulil 1965. Spordihoone valmimise ajaks on märgitud 12. mai 1973. Sellest ajast alates on keskust arendatud selliseks nagu too praegu välja paistab.

Küsimus: Mis on kirjutatud Spordikeskuse peaukse ligidal seinal olevale plaadile?

Vastus: …….....……

2. Veetorn on rajatud samaaegselt teiste raudteejaama ehitistega ajavahemikul 1904-1905. Algselt varustati veetorni veega Haapsalust u 5 km asuvast Mägari järvest. Selleks oli ehitatud järvekaldale veehaare ja aurujõul töötav pumbajaam, pumbajaama põllukividest laotud seinad ja sirge veetrassi kohale kujundatud lehiseallee on säilinud tänaseni. 1927. a ehitati torni juurde puurkaev ning loobuti järvevee kasutamisest. Veduritele anti vett hüdrandi kaudu, mis asub veetornist mõnikümmend meetrit eemal. Auruvedurite teenindamiseks vajalikud veetornid asusid raudteeliini ääres umbkaudu 40 km vahega.

Küsimus: Mis on kirjutatud veetorni uksekaare kohale?

Vastus: ……..…….....……

3. 10. augustil 1904 sõitis esimene vedur Haapsalusse. Keila-Haapsalu raudtee raudteetamm ulatus sügavale Eeslahte. Raudtee rajamise ajal ulatus laht peaaegu perroonini. Raudteetamm pidi olema niipikk, et rongidel oleks võimalik manööverdada. Veel praegugi on tammil osaliselt alles vanad raudteeröopad ja pöörmeseade, mille abil sai rongi suunata teisele teele.
Raudteetammi ajaloolises otsas (mida nüüdseks on pikendatud kergteena Õhtu kaldani) on senini kivide vahel säilinud kivitähis kirjaga, et see on Venemaa raudtee läänepoolne tipp. Asud Raudteetammi teel.

Küsimus: Seisad infotahvli ees. Mis nime kannab matkarada, millest seal räägitakse?

Vastus: …….....……

4. Ühele poole jääb Väike Viik, teisele poole meri. Meres on 6 väikest saarekest, e rahu: Mallerahu, Vaherahu, Kodurahu, Elmrahu, Kajakarahu ja Karurahu.

Küsimus: Mis lahes need saarekesed asuvad?

Vastus: …….....……

5. Läänemaalt on võrsunud helilooja Cyrillius Kreek (1889-1962) Aime Kuulbuschi loodud taies asub helilooja kunagise kodumaja ees, Väikese viigi kaldal.
Huvitav on teada, et Haapsalus on valminud ka valdav osa tema heliloomingust. Kreegi tähtsaim "salategevus" oli vaimuliku muusika komponeerimine, vaimulike rahvaviiside seaded ja koraalikaanonid. Samas oli avalikkusele teada, et Kreek suhtus kirikusse jahedalt ja tõrjuvalt.

Küsimus: Mis põõsas kasvab mälestussamba ees?

Vastus: …….....……

6. "Kepimurdja" on Juhan Raudsepa 1933. aastal valminud skulptuur, mis asub Haapsalus Väikse viigi kaldal. Skulptuur on tunnistatud riiklikuks kultuurimälestiseks. Kepimurdja sümboliseerib Sulle Haapsalus tervenenud haiget, kes murrab pooleks talle tarbetuks muutunud kepi.
Huvitav on teada, et 1992 aastal varastati skulptuur „Kepimurdja" ning saeti neljaks tükiks. Varaste pettumuseks oli skulptuur seest õõnes ning nad müüsid selle maha. Õnneks saadi tükid kätte ja skulptuur taastati endisel kujul.

Küsimus: Kummale jalale toetub kepimurdja?

Vastus: …….....…….

7. Väikese Viigi luigemajal puudub ajalooline sisu. See on ehitatud Laine sanatooriumi maja tegemise ajal. Inimesed kasutavad seda puhkamiseks ja ilusa merevaate ning luikede nautimiseks.

Küsimus: Mis lehvib luigemaja katusel?

Vastus: …….....…….

8. Haapsalu Talisupluskeskuses alustati hoogsalt talisuplejate seltskonnaga 2017. a. Kõigil soovijatel on võimalus seal ujumas käia.

Küsimus: Mitu ja mis värvi on talisupluskeskuse riietuskabiinid?

Vastus: …….....……

9. Rannarootsi Muuseumi eesmärgiks on tegeleda Lääne-Eesti saarestikul ja mandriosal asunud eestirootslaste ajaloo ja kultuuripärandi uurimise, säilitamise ja tutvustamisega. Kuigi muuseum sai registreeritud juba 28.12.1992 läks siiski mitmeid aastaid,

mille jooksul koguti esemeid ja tegeldi ehitustöödega, enne kui esimene näitus oma ruumides sai avatud 1998 juunikuus koos suurejooneliste lavastuslike Vormsi pulmadega.

Küsimus: Millele on pühendatud muuseumi ees asuv mälestusmärk?

Vastus: …….....…….

10. Maailmakuulus Vene helilooja Pjotr Tšaikovski puhkas Haapsalus 1867. a. Tema auks püstitati mälestuspink Šokolaadi Promenaadile, kus maestro armastanud kaldalt päikesetõusu jälgida ja luikesid imetleda.

Küsimus: Mis on kuulsa pingi taga peidus?

Vastus: …….....……..

11. Haapsalu linnuse lastepark asub vanas vallikraavis. Keskajal kaitses linnust linnusemüür. Ringmüürist sissepoole kaevati sügavad kraavid ja muld kuhjati selle kõrvale vallideks. Kui vaenlane läbi või üle müüri tuli, jäi ta vallikraavi püssi- ja suurtükitule alla lõksu. Haapsalu linnusesisene muldkindlustus on unikaalne. Haapsalu linnuse vallikraavid ja muldvallid on säilinud vaid osaliselt. Kõige suuremas vallikraavis ongi praegu lastepark, mis avati 2008. aasta juunis.

Küsimus: Mitu trepiastet on lastealale viival kivitrepil?

Vastus: …….....…….

12. Haapsalu Võllamägi on Haapsalus Sireli tänaval majadevahelisel platsil asuv u 2 m kõrgune ja 16 m laiune küngas, kus kesk- ja varauusajal asus hukkamiskoht.

Küsimus: Seistes Võllamäel infosildi juures, leiad tekstist sõna, kuidas nimetatakse kohta teise nimega.

Vastus: …….....…….

13. Randsalu (Rantzar) nimi on kirjas juba 1294. a. Haapsalu linnaõiguses, mil vesi ulatus linna alla ja linnakodanikel oli õigus kalastada Randsalu all. Randsalu oja on alates linna rajamisest olnudlinnamaade piiriks ja üle Randsalu oja on kulgenud Tallinna maantee. Randsalu vesiveskit mainitakse juba 1323. a. Selle asukohast on säilinud tänapäevani alles kivisild (stendide juures). Vesiveski kuulus Uuemõisa mõisale.

Küsimus: Mis värvi luugid on akendel?

Vastus: …….....……

14. Uuemõisa mõisa park on kaitsealune park Uuemõisa alevikus Haapsalus. Väga suur, kaheosaline ja planeeringult vabakujunduslik park läheb üle parkmetsaks. Mõisa peahoone ette jääb puuderühmadega ühelt ja murualaga teiselt poolt piiratud maanteele suunatud tee.

Teise pargiosa moodustab väidetavalt 18.-19. sajandi vahetusel rajatud tiheda vabakujundusliku puistuga pargiala oletatava vana peahoone küljel, kus hoonele avaneb kitsas tiikide süsteemini ulatuv väljak.
Mõisapark on rekonstrueeritud 1936. aasta kaardi järgi.

Küsimus: Mitu tammepuud on saarekesel?

Vastus: ………………………………………………………………………………………

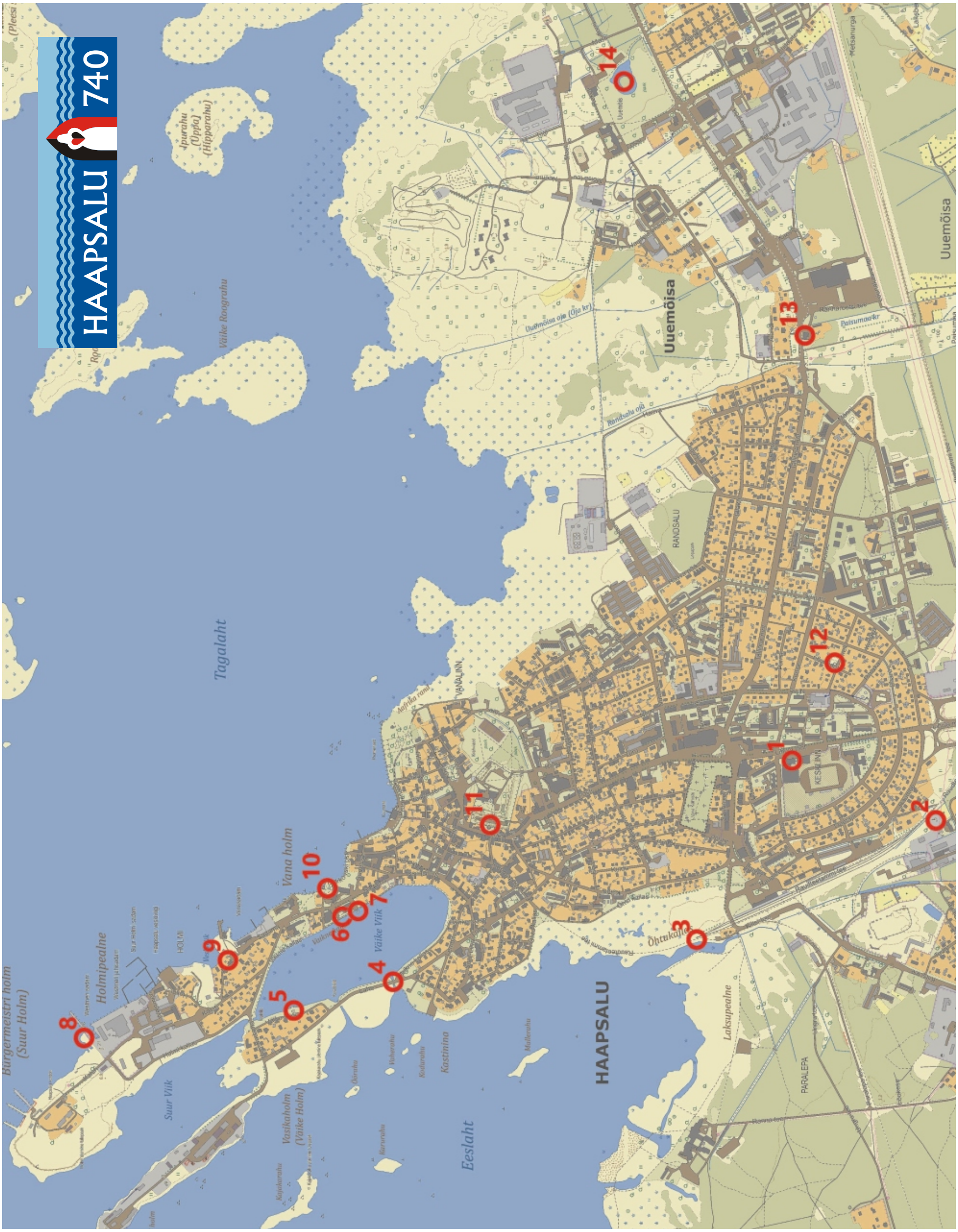

VASTAJA INFO

Osaleja nimi (või grupi liikmete nimed) Kontakttelefon

....

Elukoht/kool/asutus

.....

1. Seeneplats on Paralepa liikumisradadele jääv plats, kuhu inimesed kogunevad. Sellelt platsilt saavad alguse ka liikumisüritused.

Küsimus: Liikumisradade tahvli ees seistes näed, kui palju kilomeetreid näitab Rohukülasse. Kirjuta see number.

Vastus: …….....……

2. Haapsalu ümbruskonnas on palju rändrahne. Kõik need on koos mandriliustikuga Skandinaaviast siia rännanud üle 10 000 aasta tagasi. Kõige tuntum on rändrahn, mis asub Paralepa metsas, Haapsalu-Ungru tee ääres (kõrgus 1,9 m). Legendi järgi olevat Vene keiser Peeter I, kes 1715. a. Haapsalus käis, külastanud Ungru krahvi. Tagasiteel riivanud tõld teeäärset rahnu ja ratas veerenud alt ära. Nii pidi keiser kivil istuma ja ootama kuni kutsar tõlla jälle korda teeb. Selle sündmuse põhjal hakanud rahvas rahnu Peetri kiviks nimetama.

Küsimus: Kelle nimi on Peetri kivile sisse kraabitud? (Vastuse leiad 10 m raadiusest)

Vastus: …….....……..

3. Ungru kivisild on 19. sajandi algul üle Ungru jõe rajatud paekivist laotud võlvidega kivisild Haapsalu - Ungru maanteel.

Küsimus: Mitu kaart on sellel sillal?

Vastus: …….....……..

4. Paralepa ülemine tuletorn on 1934. aastal ehitatud musta-valgetriibulise raudteebetoontorn, mille kõrgus jalamist on 34 meetrit ja tule kõrgus merepinnast on 38 meetrit. Valge tuli põleb pimedal ajal aastaringselt, see on näha 8 meremiili kaugusele. Tuletorn moodustab sihi Paralepa alumise tuletorniga. Märkide vahekaugus on 802 m.

Küsimus: Mitu klaasiga akent on tuletornil?

Vastus: …….....……

5. Pullapääl asub Vene keisri Aleksander III (eluaastad 1845-1894) mälestuseks püstitatud monument. Mälestussammas püstitati peale keisri surma Eestimaa piirivalvebrigaadi ülema kindralmajor vürst Jengalõtõevi eestvõtmisel keisri mälestuseks, kes oli Haapsalut külastades armastanud Pullapääl käia. Kolme kullatud sibulkupliga vasalemma marmorist vene-bütsantsi stiilis mälestussammas avati 25. jaanuaril 1896. Selle esiküljel olevas süvendis oli metallist reljeef, mis kujutas keisrit lõkketule ääres kartuleid küpsetamas, selle ees latern. Reljeefist allpool paiknes selgitava kirjaga tahvel. Mälestussammast lõhuti 1917. aasta revolutsiooni

käigus ja see jäi hiljem hoolduseta. Tänaseni on säilinud samba põhiosa.

Küsimus: Mitu kuuliauku on mälestussamba tagaküljel?

Vastus: …….....……

6. Pullapää radarimägi. Pullapääle rajati 1968. aastal asus õhukaitsesüsteemi raadiolokat. siooni väeosa ehk radarijaam. Seda meenutab tänini Pullapää tee ääres, mere kaldal kõrguv mäekuplit meenutav angaar, millelt avaneb kaunis vaade Haapsalule. Nõukogude ajal rajatud angaari tipus asus radar.

Küsimus: Mitu kruvi on maasse pandud posti sees?

Vastus: …….....…….

7. Pullapää pank - 200 m pikk järsk paekallas, kus paljandub 0,5-3 m Juuru lademe Tamsalu kihistu krinoiidlubjakive. Siin asub üks paremates Juuru lademe paljanditest Läänemaal. Paljandid on tugevasti sammaldunud, kaunid. Paekalda astangu vertikaalse osa ees nõlval on väga suuri paepanku (pindalag kuni 10 m/2), mis on astangust lahti murdunud. Nende all on metsloomade urge. Astangu jalamil leidub kuni 3 m läbimõõduga rändrahne. Üks neist meenutab suurt kaussi. Paekalda ümbruses kasvab loomännik, mis on haruldane metsatüüp.

Küsimus: Mis on kirjutatud väikesele sildile Pullapää pangal?

Vastus: …….....……

8. Rohuküla vana elektrijaam. Praeguseks võsasse kasvanud tsaariaegse (1915-17, I Maailmasõda) sõjasadama juurde kuulunud elektrijaam on varemetes. Kõik hooned, sh.ka elektrijaam, olid uhkes neoklassitsistlikus laadis, seetõttu ka meenutab see vare tugevasti kirikut. Ehitised valdavalt õhiti 1917, osa aga ei saanudki kunagi valmis.

Küsimus: Mitu kaarakent on alles varemetel?

Vastus: …….....……

9. Haapsalu-Rohuküla maantee ääres on maalilised Ungru lossi varemed. See on kõige suurejoonelisem uusbarokne härrastemaja Eestis, mis kahjuks päris valmis ei saanud kunagi. Loss sai 1899. a. katuse alla, kuid rahapuudusel jäi ehitus seisma. 1920/1930. aastatel oli lossi torn külastajaile avatud. Muud mõistlikku rakendust hiigelehitisele ei leitud. 1939. a. nn baaside lepinguga sai loss naabriks Nõukogude Liidu sõjaväelennuvälja. 1960. aastatel asus N. Liidu sõjavägi lennuvälja laiendama ja Ungru loss jäi okastraataia taha keelutsooni. Laguneva lossi kivi- ja katusematerjali kasutati lennuvälja rajatiste ehituseks. Õnneks suur osa hoone kehandist ja kaunitest baroksetest otsaseintest säilis.

Küsimus: Mitu suurt kivi on Ungru lossimurul?

Vastus: …….

10. Paralepa alumine tuletorn on 1934. aastal ehitatud valge raudbetoontorn, mille kõrgus jalamist on 16 meetrit ja tule kõrgus merepinnast on 15 meetrit. Valge tuli põleb pimedal ajal aastaringselt, see on näha 7 meremiili kaugusele. Tuletorn moodustab sihi Paralepa ülemise tuletorniga.

Küsimus: Mis firma lukk on tuletorni uksel?

Vastus: …….....……

11. Rohuküla sadama endine miiniladu on hetkel eravaldus. Asub Rohuküla sadama juures.

Küsimus: Mis nimega turvafirma silt on endise miinilao väraval?

Vastus: …….....……..

12. Nõmme küla metsa rajati 1969. aastal õhutõrjevägede raketibaas. Käesolevaks ajaks meenutavad kesktegevuskaugusega seniitraketikompleksi ja samas asunud tuumalõhke-peade hoidlat metsas mitmel pool asuvad lagunevad asfaltplatsid ja hoonete rusud.

Küsimus: Tee pilt raketibaasi eest raketišahti poole ja saada see etteantud aadressile.

.....

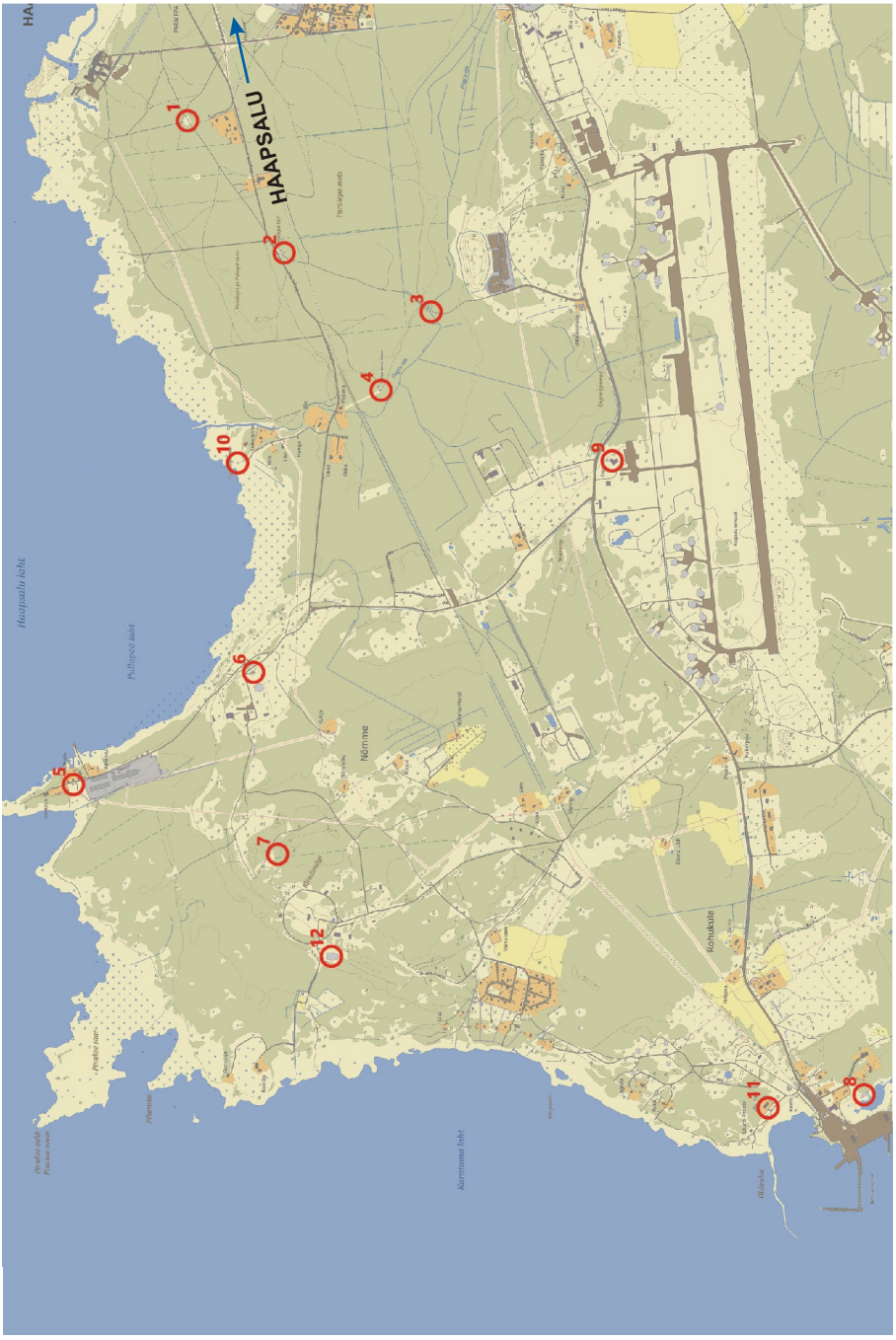
HAAPSALU
1
2
3
4
5
6
7
8
9
10
11
12
Haapsalu laht
Pullapõõ laht
Nõmme
Rohukula
Karrtuma laht

ÜLDINFO

Radasid saab läbida jalgsi, joostes, rattaga sõites jm liikumisvahenditega, millega pead ennast liigutama tervislikult. Radade pikkused on arvestatud liikumisega mööda avalikku teed. Kui minnakse kusagilt otse, siis on lühem. Punktidele ei pea otsima vastuseid ühe päeva sees. Võite oma raja osadeks jagada. Peate loosis osalemiseks läbima vähemalt 50% seiklusorienteerumise punktidest.

Martna rada

Martna raja pikkus kõikide punktide läbimisel on orienteeruvalt 20 km
Martnas saab ülesannete vihikuid Martna osavallast, mis asub vallamaja hoones (Martna küla, Lääne-Nigula vald)
E-R 8.00-19.00
L 11.00-16.00

Linnamäe - Taebla rada

Raja pikkus kõikide punktide läbimisel on orienteeruvalt 27 km
Linnamäel saab ülesannete vihikuid LAS-i maja kohvikust (Linnamäe, Lääne-Nigula vald) tööpäevadel kella 11-14ni.
Taeblast vallamaja (Haapsalu mnt 6, Taebla) fuajeest
E-R 8.00 - 16.30

Lisainfo: Loe läbi kindlasti ka vihiku üldinfo!

Maie Arro foto

VASTAJA INFO

Osaleja nimi (või grupi liikmete nimed) Kontakttelefon

....

Elukoht/kool/asutus

.....

1. Martna osavalla valitsus. Mitu küla kuulub Martna osavalla koosseisu ja nimeta neist 4 suuremat?

Vastus: …….....……..

2. Kaarhalli taga asub kohalike poolt Ninni mäeks kutsutud küngas? Mis põhjusel kohalik ärimees selle tegi ja kellele?

Vastus: …….....…….....…..

3. Millise pühaku nime kannab Martna kirik?

Vastus: …….....…….

4. Seisad Inglisillal. Mis on 27,6 km pikkuse Martnast läbi voolava ja Matsalu Lahte suubuva jõe nimi?

Vastus: …….....…….

5.Mis aastal alustati koolihariduse andmist Martnas?

Vastus: …….....……..

6. Miks nimetatakse Ehmjas Martna-Saanika tee ääres asuvat rändrahnu Kuradikiviks?

Vastus: …….....……..

7. Ehmja Kuradimäe ringvall-linnuse tüüpi linnusekoht paikneb põllul kõrgemas kohas, 80 cm maapinnast. Selle ovaalse kujuga õueala läbimõõt on põhja-lõuna suunas 41 m ja ida-lääne suunas 32 m. Aja jooksul on põllutöödega kive juurde veetud ning seetõttu

ei ole vallide esialgne paiknemine selge. Linnuse ase on halvasti säilinud. 1982. aastal läbi viidud arheoloogiliste kaevamiste käigus leiti mõned savinõukillud. Nende leidude järgi on linnuse kasutusaeg dateeritud I aastatuhandest kuni II aastatuhande algusesse. Rahvajutu järgi olevat Vanakurat tahtnud siia linna ehitada, kuid külas varahommikul kirema hakanud kuked katkestasid tema ehitustööd ning viimane kivi kukkunud poolel teel põllule. Tänaseks tuntakse seda rändrahnu Kuradikivina.

Vastus: Tee endast pilt Kuradimäel ja saada see seiklusorienteerumise sündmuse FB lehele.

8. Ehmja mõisa viinavabriku hoone. Lagunenud kahekordse hilisbarokse massiivsete müüridega Ehmja mõisahoone varemed ei paista teelt võsastunud parkmetsast silma, kuid pilku püüab tee läänekülje jääv Ehmja mõisa viinavabriku hoone. Millest on see eravaldus ehitatud?

Vastus: …….....…….

9. Milliseid teenuseid pakub suursugune eravalduses olev 17. sajandil Baranoffide aadliperekonnale kuulunud Suure-Lähtru mõis?

Vastus: …….....……

10. Mis on mitmete tiitlitega pärjatud Tammejuure Mahetalu tuntuim põllukultuur?

Vastus: …….....……...

Foto internetist

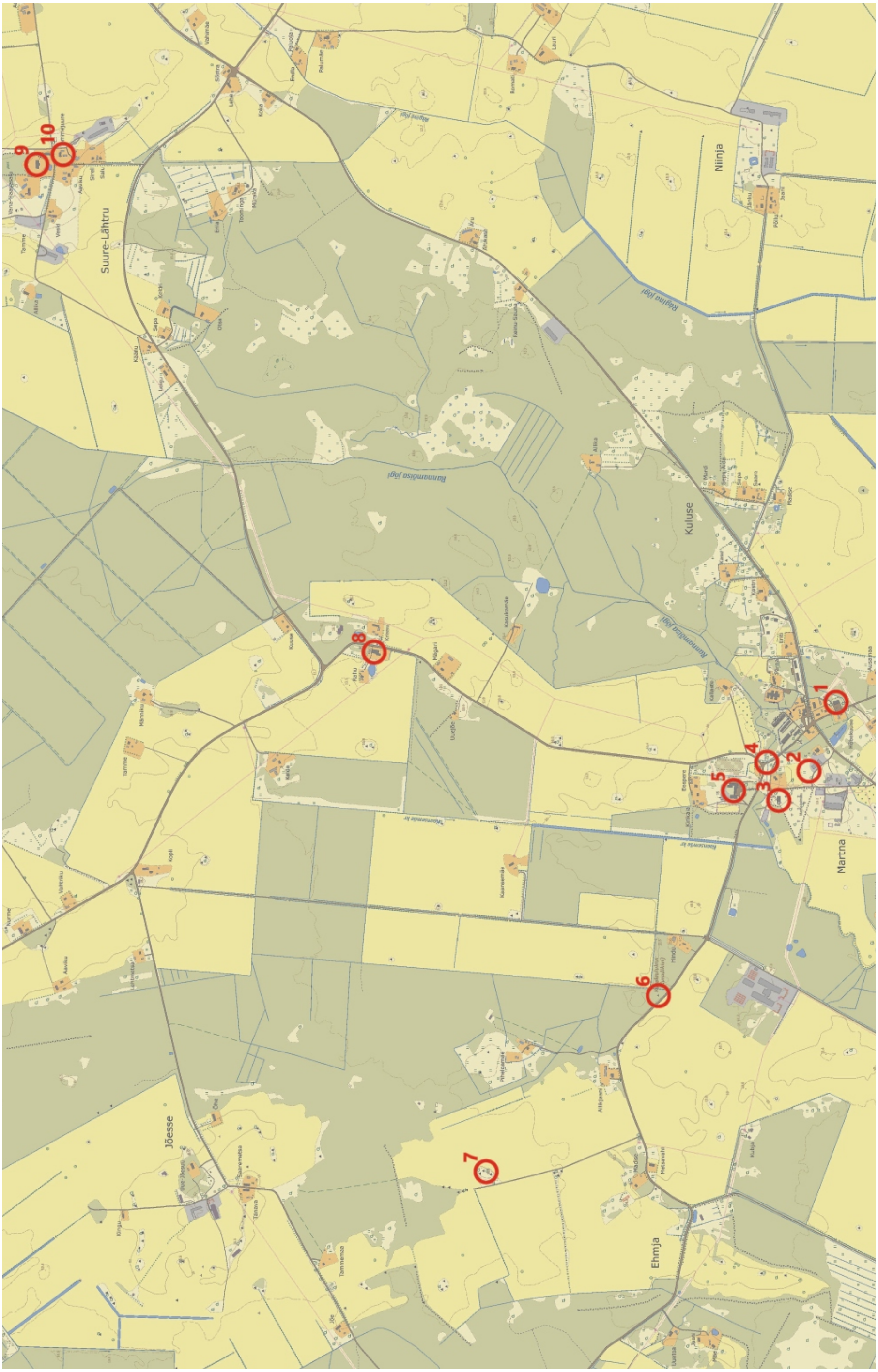
Suure-Lähtru
Niinja
Kuluse
Martna
Jõesse
Ehmja
Rannamõisa jõgi
Rõgina jõgi
1
2
3
4
5
6
7
8
9
10

VASTAJA INFO

Osaleja nimi (või grupi liikmete nimed) Kontakttelefon

....

Elukoht/kool/asutus

.....

1. Silma õpikoda- looduskool. Silma looduskaitseala moodustati 1998. aastal, mis on ligi 7000 ha suurune märgala ja mis asub kiire maakerke piirkonnas. Maa tõuseb siin merest kiirusega 1-2 mm aastas. Õpikoja ümber asuvad roostikud ja rannaniidud on merest kerkinud viimase 200-300 aasta jooksul. Praegu metsaga kaetud alad olid esimesed saarekesed, mis sajandite eest üle merepinna kerkisid. Veel 1715 aastal sõitis Peeter I praeguse looduskooli lähiümbruses asunud väinadest oma paatidega läbi, et Haapsalut külastada.

Küsimus: Millised loomad elavad Looduskooli aedikus?

Vastus: …….....……

2. Saunja külas, Silma õpikotta viiva tee ääres asub Vanaaseme talu, mis on olnud üle 300 aasta ühe suguvõsa kasutuses. Tänaste omanike esivanemad olid talus elanud juba 20 aastat kui Peeter I praktiliselt nende koduõuest Haapsalu poole purjetas. Tänasel päeval annab väga hästi säilinud talukompleks koos imeliste loodusvaadetega aimu esivanemate aegsest elu-olust.

Küsimus: Mis on kirjutatud kivile, mis asub tallu viiva tee ääres?

Vastus: …….....……

3. Räägu mõisapark- aida maja. Räägu mõisa puidust härrastemaja on ehitatud 1835, säilinud on kaaristuga ait, kaheksanurkne ait, mootorveski ja mõned kõrvalhooned. Maanteest eraldab mõisat park, kus asub II Maailmasõjas hukkunute ühishaud mälestuskiviga. Praegu asub hoones Oru Hooldekodu.

Küsimus: Millist nime kannab Keila maanteelt hooldekodusse viiv tee?

Vastus: : ……..

4. Linnamäe trafo-alajaam on üks vanemaid Eestis, ehitatud seoses Eesti esimese kõrgepingeliini Ellamaa-Haapsalu rajamisega. Omapäraselt arhailise ilmega maakivist hoonel on plekist sadulkatus ning algsena säilinud isolaatorite konsool ja aken.

Küsimus: Mis aastal on alajaam rajatud?

Vastus: …….....……

5. 1903 aastal avatud koolihoonest on 115 aastat hiljem saanud kaunis renoveeritud kogukonna maja, uue nimega LAS- i maja. LAS- majas on Linnamäe noortekeskus, beebikool, juuksur, koolituste ja pidude korraldamiseks vajalikud ruumid ning avarad saunad Majas töötab ka kohvik!

Küsimus: Millist nime kannab LAS-i maja kohvik?

Vastus: …….....……..

6. Koela Talumuuseum paikneb Lääne-Eesti tüüpi rehielamus, mis on ehitatud 19. sajandi lõpul. Õuel asuvad saun ja riideait. Muuseum tutvustab külastajaile talumajapidamises kasutatud tööriistu ja tarbeesemeid; samuti antakse teavet endisaegse Läänemaa talu ja Eesti ärkamisaja elu-olust.

Küsimus: Kellega ja mis nr kokku leppida, et muuseumit külastada?

Vastus: …….....……..

7. Lääne- Nigula Vabadussammas avati 14. septembril 1930, kavandi autor on Roman Haavamägi. Nõukogude okupatsiooni ajal 1946 aasta septembris mälestussammas purustati. Septembris 1989 avati samas kohas uus mälestussammas, mis on endise samba täpne koopia. Mälestussamba juurde on paigaldatud kaks mälestuskivi Teises maailmasõjas hukkunuile ja küüditatuile.

Küsimus: Mis on kirjutatud lippude kõrval olevale plaadile?

Vastus: …….....……

8. Taebla kool. Pälli külas saab näha korraga kolme koolimaja, 1929 aastal rajatud koolimaja, hoole ja armastusega tehtud väärikas hoone, sügaval nõukogude ajal 1978 aastal ehitatud koolimaja, millest pool on ära lammutatud ja pooles käib õppetöö ja ehitusjärgus olev kaasaegne uus koolihoone.

Küsimus: Mis firma ehitab uut Taebla koolihoonet?

Vastus: …….....……

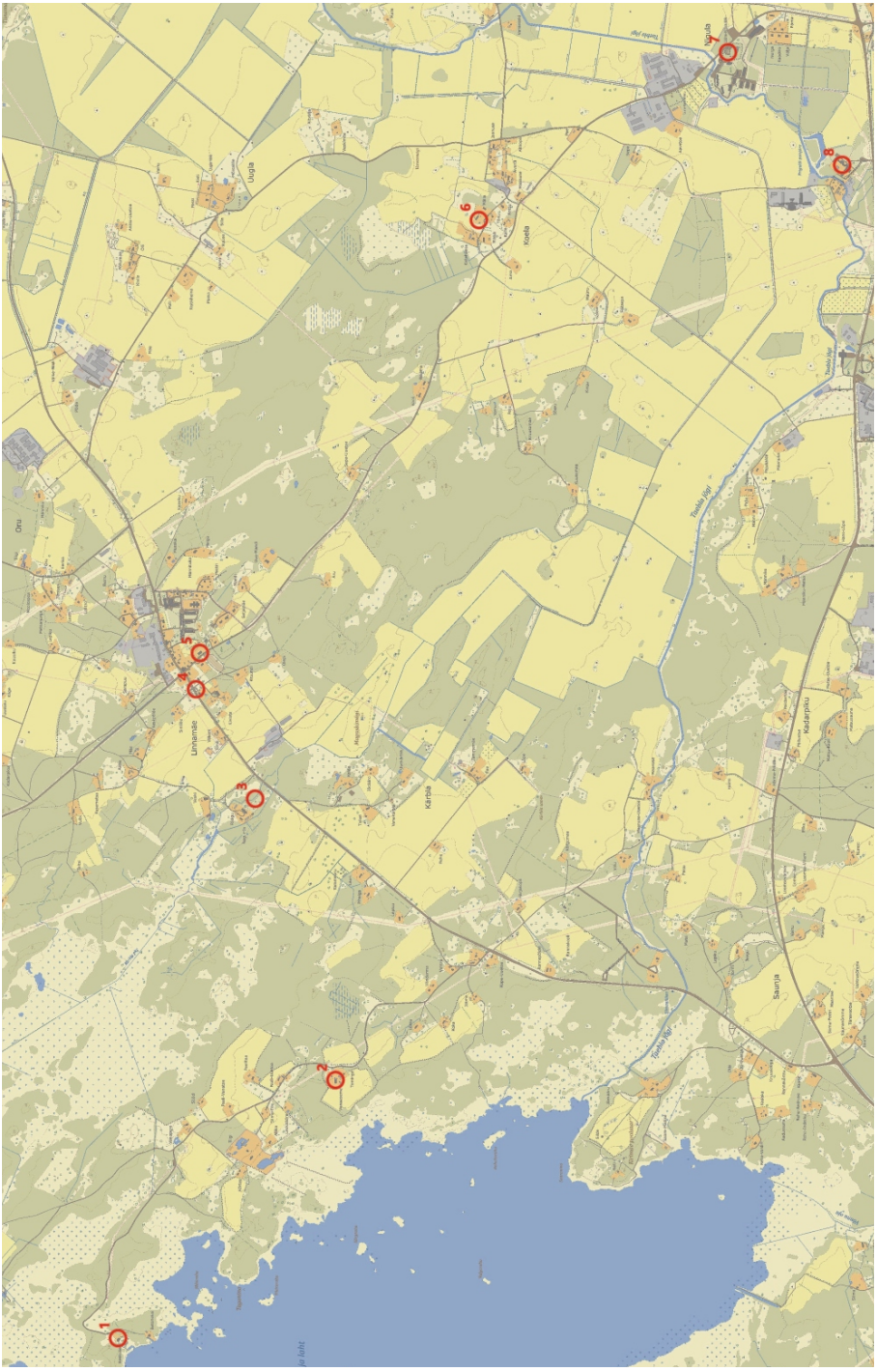
Ugla
Koela
Oru
Linnamae
Kärbla
Kadarpiku
Saunja
Tuhla Jõgi
1
2
3
4
5
6
7
8